Iruñeko Arte Eskola
Escuela de Arte Pamplona

Amaya, 27 31004 PAMPLONA
T 848 431 310 FAX 848 431 333
ea.pamplona@educacion.navarra.es
www.escueladeartepamplona.com

Nafarroako Gobernua
Hezkuntza Departamentua
Gobierno de Navarra
Departamento de Educación

PRUEBA DE APTITUD ARTÍSTICA

CICLOS FORMATIVOS DE GRADO SUPERIOR

CONVOCATORIA 2018

SEPTIEMBRE

RESOLUCIÓN 152/2018, de 12 de abril,

CALIFICACIÓN ☐

APELLIDOS .....

NOMBRE ..... **DNI** .....

Contesta, verdadero o falso, a las siguientes preguntas:

(**2 puntos**. 0,2 puntos por pregunta correcta)

		V	F
1.	En la cámara fotográfica el obturador es un mecanismo que regula el tiempo de exposición		
2.	La xilografía es una técnica de impresión en relieve realizada sobre una matriz de metal		
3.	Si un dibujo está representado a escala 1:100 significa que 1 cm del papel representa 100 m de la realidad		
4.	La silicona es un elastómero usado para realizar moldes flexibles.		
5.	El modelo RGB está formado por los tres componentes de colores primarios aditivos: rojo (Red), verde (Green) y negro (Black).		
6.	El papel cuché lleva un revestimiento mineral de carbonato de calcio		
7.	La Bauhaus, es una escuela de artesanía, diseño, arte y arquitectura fundada en 1719 por Walter Gropius en Weimar (Alemania)		
8.	El estudio de las medidas y proporciones en el cuerpo humano se llama antropometría		
9.	Cada una de las imágenes instantáneas en las que se divide una película de cine se llama frame		
10.	Las esculturas en relieve son figuras que al ser tridimensionales pueden ser observadas desde todos los ángulos		

Iruñeko Arte Eskola
Escuela de Arte Pamplona

Amaya, 27 31004 PAMPLONA
T 848 431 310 FAX 848 431 333
ea.pamplona@educacion.navarra.es
www.escueladeartepamplona.com

Nafarroako Gobernua
Hezkuntza Departamentua
Gobierno de Navarra
Departamento de Educación

PRUEBA DE APTITUD ARTÍSTICA

CICLOS FORMATIVOS DE GRADO SUPERIOR

CONVOCATORIA 2018

SEPTIEMBRE

Escribe, en el recuadro inferior, un comentario comparando estas dos imágenes. (1 punto)

Iruñeko Arte Eskola
Escuela de Arte Pamplona

Amaya, 27 31004 PAMPLONA
T 848 431 310 FAX 848 431 333
ea.pamplona@educacion.navarra.es
www.escueladeartepamplona.com

Nafarroako Gobernua
Hezkuntza Departamentua
Gobierno de Navarra
Departamento de Educación

PRUEBA DE APTITUD ARTÍSTICA

CICLOS FORMATIVOS DE GRADO SUPERIOR

CONVOCATORIA 2018

SEPTIEMBRE

Dibujo de línea. Termina el dibujo imaginando el instrumento incompleto. (Mano alzada)

(2 puntos)



Iruñeko Arte Eskola
Escuela de Arte Pamplona

Amaya, 27 31004 PAMPLONA
T 848 431 310 FAX 848 431 333
ea.pamplona@educacion.navarra.es
www.escueladeartepamplona.com

Nafarroako Gobernua
Hezkuntza Departamentua
Gobierno de Navarra
Departamento de Educación

PRUEBA DE APTITUD ARTÍSTICA

CICLOS FORMATIVOS DE GRADO SUPERIOR

CONVOCATORIA 2018

SEPTIEMBRE

Motivo geométrico. Completa la siguiente figura. Colorea con una gama de colores cálidos. (Mano alzada)

(2 puntos)



Iruñeko Arte Eskola
Escuela de Arte Pamplona

Amaya, 27 31004 PAMPLONA
T 848 431 310 FAX 848 431 333
ea.pamplona@educacion.navarra.es
www.escueladeartepamplona.com

Nafarroako Gobernua
Hezkuntza Departamentua
Gobierno de Navarra
Departamento de Educación

PRUEBA DE APTITUD ARTÍSTICA
CICLOS FORMATIVOS DE GRADO SUPERIOR
CONVOCATORIA 2018
SEPTIEMBRE

Valoración de grises. Completa la siguiente foto, reconstruye la parte que falta utilizando los grises necesarios.

(2 puntos)



Iruñeko Arte Eskola
Escuela de Arte Pamplona

Amaya, 27 31004 PAMPLONA
T 848 431 310 FAX 848 431 333
ea.pamplona@educacion.navarra.es
www.escueladeartepamplona.com

Nafarroako Gobernua
Hezkuntza Departamentua
Gobierno de Navarra
Departamento de Educación

PRUEBA DE APTITUD ARTÍSTICA

CICLOS FORMATIVOS DE GRADO SUPERIOR

CONVOCATORIA 2018

SEPTIEMBRE

Dibujo técnico. A partir de la vistas dadas, realiza la proyección isométrica. (Mano alzada)
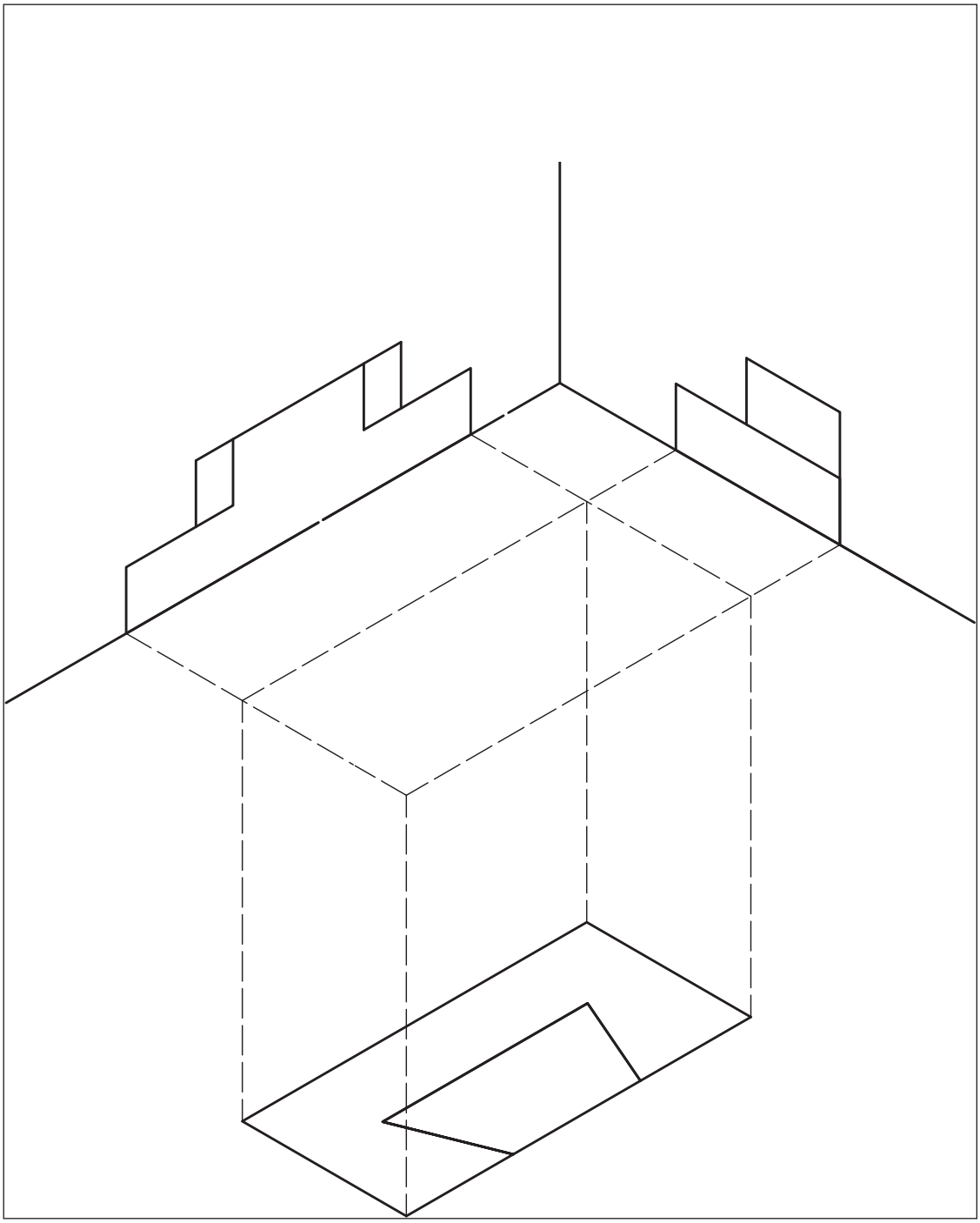
(1 punto)